Lunes 1 - viernes 5 junio 2020

Buenos días chicos y chicas:

A partir de esta semana y las siguientes, empezamos a repasar todos los contenidos trabajados a lo largo del curso.

Os animamos a seguir trabajando con la misma dedicación y responsabilidad.

Os queremos

El profe Manolo y la seño Sonia

1.- Contesta:

a) Escribe con cifras:

Tres enteros y cinco décimas _____

Cinco unidades y ochenta milésimas _

b) Escribe con letras:

28, 04 _____

79 _____

2.- Contesta:

a) Escribe cómo se leen estas fracciones:

$$\frac{2}{3} =$$

$$\frac{5}{18} =$$

$$\frac{7}{10} =$$

b) Escribe estas fracciones:

Un medio =

Siete veinticuatroavos =

Tres cuartos=

3.- Ordena los siguientes números:

a) De mayor a menor:

0,07 – 3,9 – 1,20

_____

b) De menor a mayor:

$$\frac{2}{10} \quad \frac{9}{10} \quad \frac{6}{10}$$

$$\frac{10}{3} \quad \frac{10}{5} \quad \frac{10}{8}$$

4.- Calcula:

a) 37,04 x 100=

b) 43,45 x 10=

c) 70,6: 100 =

d) 5,04: 10=

e) 220: ___ = 22

5.- Coloca y realiza las multiplicaciones:

a) 45,25 x 3,4 =

b) 2180 x 360 =

c) 38.410 x 602 =

d) 20,621 x 5,07 =

6.- Realiza las divisiones indicando si es exacta o inexacta:

a) 4029: 6 =

b) 387,65: 25=

c) 63085: 3,4 =

d) 374,543: 4,5

7.- Coloca y realiza las siguientes operaciones:

a) 12,85 + 1,6 + 0,33 = _____

b) 130 – 4,7 = _____

c) 16,80 + 154,1 + 0,346 = _____

d) 721,2 – 157,045 = _____

8.- Realiza las siguientes operaciones

$$\frac{3}{8}+\frac{4}{8}+\frac{2}{8}=$$

$$\frac{3}{4}+\frac{4}{2}+\frac{2}{6}=$$

$$\frac{13}{8}+\frac{4}{8}=$$

$$\frac{3}{4}+\frac{4}{6}=$$

$$\frac{3}{2}\text{x}\frac{4}{2}\text{x}\frac{2}{2}=$$

$$\frac{3}{2}\text{x}\frac{4}{3}\text{x}\frac{2}{5}=$$

$$\frac{3}{2}:\frac{4}{2}=$$

$$\frac{3}{5}:\frac{4}{7}=$$

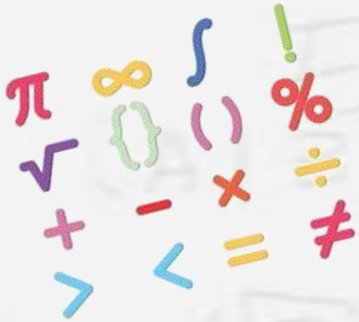

9.- Resuelve estas operaciones combinadas

5 x (10 + 2 – 5) =

3 x (6 – 4 + 1) + 4 =

(2 x 6): 4 =

2 + 4 x 3 - 5=

$$2 \times \left(\frac{2}{3} + \frac{4}{3}\right) =$$

10.- Sitúa en el eje de coordenadas los siguientes puntos:

(4,0) (1,5) (3,3) (2,3) (1,2)



Problemas: Plantea y resuelve

1.- En la tienda librería había 2450 cuadernos. Al inicio del curso se han vendido 170 paquetes de doce cuadernos cada uno. ¿Cuántos cuadernos han quedado sin vender?

2.- Ayer, mi amiga Rebeca compró 5 regalos iguales para la fiesta del amigo invisible. Ha pagado con un billete de 50 euros y 2 de 20 euros y uno de 10 euros y le han devuelto dinero. ¿Sabrías decir qué regalo ha elegido de los tres?

Problemas: Plantea y resuelve



3.- Ahora tengo que completar esta tabla de precios.

1 kg	48 euros	12 euros	8 euros
$\frac{1}{2}$ kg			
$\frac{1}{4}$ kg			
$\frac{3}{4}$ kg			

4.- Quiero comprar estos productos en el Supermercado para celebrar una fiesta y he pensado en hacer un flan de pera. Tengo que rellenar la tabla con los ingredientes para 8, 12 y 16 personas y así conocer las cantidades.

flan de pera	peras	azúcar	harina	mantequilla
4 personas	5	100 g	125 g	150 g
8 personas				
12 personas				
16 personas				

Ahora nos toca jugar con las mates

*Hay un número que muy valiente se creía, pero cuando su cinturón le quitabas todo su valor perdía.

*Se tiene 1 caja grande, con cuatro cajas medianas dentro, tres cajas chicas dentro de cada mediana y 2 cajas pequeñas dentro de cada chica. ¿Puedes decir cuál es el número completo de cajas de regalo que se tienen?



¿Cuál es la respuesta?

$3 + 3 \times 3 + 3 = ?$

a. 21
b. 36
c. 15

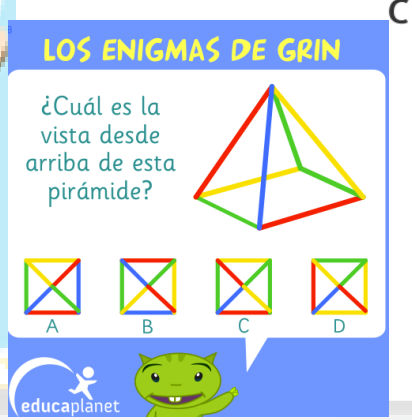

¿Qué número escribimos sobre la línea gris?

1
1 1
1 2 1
1 3 3 1
1 4 __ 4 1

En el modelo aparece una figura geométrica desplegada. Una vez plegada, indica en qué figura quedará convertida

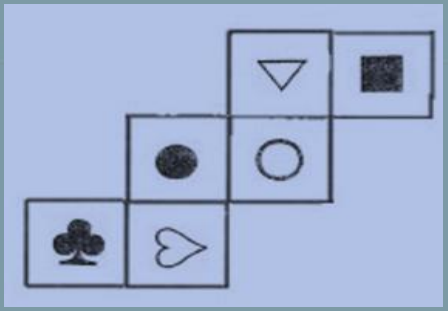

A

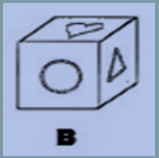

B

C

D

Por esta semana, ya ha sido suficiente.
Esperamos que no os hayan supuesto mucha dificultad.

Besitos
Profe Manolo y Seño Sonia